

Lecture de plans de bâtiments

Savoir réaliser la cotation d'un espace sur un plan et déterminer une quantité de produit.



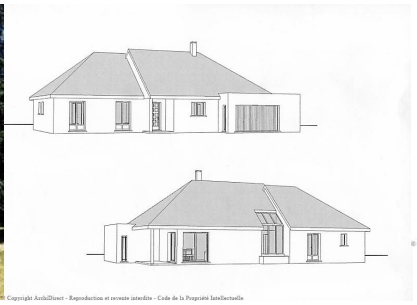

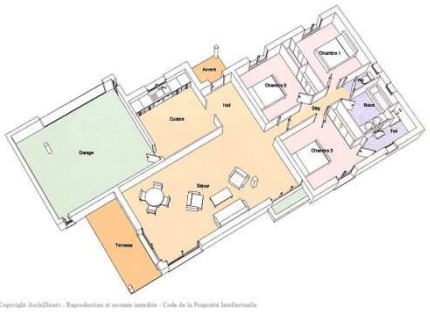

☞*A partir du plan de niveau de « la maison de Bérangère » donné page suivante, déterminer son échelle de représentation.*

☞*Mettre en place la cotation intérieure du séjour, du hall et de la cuisine sur le dessin.*

☞*Afin de prévoir la quantité de carrelage et de colle nécessaire au revêtement de sol de ces trois pièces, vous devez :*
A - déterminer la surface totale de cet espace.



B – Calculer le nombre de cartons de carrelage.
(1 carton couvre 1.8m²)

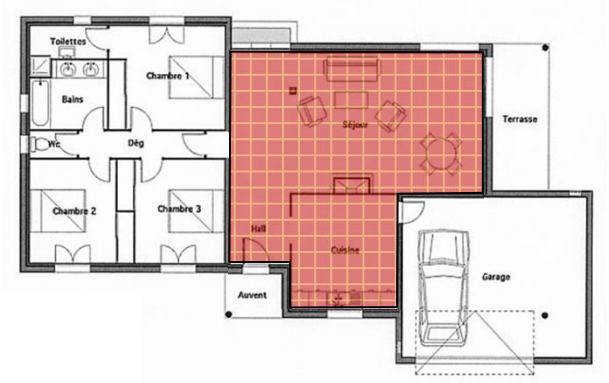

C-Déterminer le nombre de sacs (25 kg) de colle.
(4,5 kg de colle par m²)

La maison de

Bérangère

